ОТВЕТЫ НА ЗАДАНИЯ
для выявления интеллектуально одаренных учащихся
по учебным предметам «Всемирная история», «История Беларуси»

ИСТОРИЯ ВСЕМИРНАЯ

Выберите правильный ответ.

1. **Пелопоннесская война завершилась в:**
а) 414г. до н. э.; б) 407г. до н. э.; в) 404 г. до н. э.; г) 401г. до н. э.

2. Византийский император Юстиниан I правил в:
а) 537 - 562 гг.; б) 527 - 565гг.; в) 525 - 567 гг.; г) 523 - 568 гг.

3. В 1356 г. состоялась:
а) битва при Креси; б) битва при Лас-Навас-де-Толоса;
в) битва при Пуатье; г) битва на Синих Водах.

4. Кого современники называли «ленивыми королями»?
а) Меровингов; б) Каролингов; в) Капетингов; г) Бурбонов.

5. Событиям Нидерландской буржуазной революции посвятил свою картину “Избиение младенцев” художник:
а) Альбрехт Дюрер; в) Иероним Босх;
б) Питер Брейгель Старший; г) Рафаэль Санти.

6. До конца XIX в. именно это европейское государство придерживалось политики «блестящей изоляции»:
а) Франция; в) Германия;
б) Россия; г)Великобритания.

7. Определите деятельность, которую осуществлял человек, изображенный на портрете:

1) по поручению Александра I написал 12томную “Историю государства Российского”;
2) открыл “ледяной материк” - Антарктиду и 29 островов в Атлантическом и Тихом океане;
3) первым провёл операцию под наркозом на поле боя и ввел неподвижную гипсовую повязку;
4) создал новую, неевклидову геометрию, совершившую переворот в представлении человека о природе и пространстве.

8. Во время правления этого российского императора в России произошло следующее событие:

1) восстание на броненосце «Потёмкин»;
2) в стране было отменено крепостное право;
3) российская армия разгромила великую армию Наполеона;
4) в Орехово-Зуеве произошла Морозовская стачка.

Установите соответствие:

9. События Английской буржуазной революции:

А	1640 г.	1	Реставрация династии Стюартов на престоле
Б	1645 г.	2	Установление протектората О. Кромвеля
В	1649 г.	3	Созыв Карлом I Долгого Парламента
Г	1653 г.	4	Битва при Нейзби
Д	1660 г.	5	Установление республики в Англии
		6	Принятие «Билля о правах»

ОТВЕТ: А3; Б4 ; В5 ; Г2 ; Д1 .

10. Деятели эпохи Ренессанса и их литературные и научные труды:

1	«Об обращении небесных сфер»
2	«Похвала глупости»
3	«Письма тёмных людей»
4	«Утопия»
5	«Город Солнца»

А	Б	В	Г

ОТВЕТ: А2 ; Б5 ; В1 ; Г4 .

11. Латиноамериканские колонии и их метрополии в XVI-XVIII вв.:

А	о. Пуэрто-Рико	1	Бельгия
Б	о. Ямайка	2	Франция
В	о. Кюрасао	3	Испания .
Г	о. Мартиника	4	Португалия
Д	Бразилия	5	Великобритания
		6	Нидерланды

ОТВЕТ: А3; Б5 ; В6 ; Г2 ; Д4 .

12. Договоры, заключенные после окончания Первой мировой войны, и те побежденные страны, с которыми они были заключены:

1	Версальский	А	Австрия
2	Сен-Жерменский	Б	Болгария
3	Нейиский	В	Венгрия
4	Трианонский	Е	Г ермания
5	Севрский	Д	Турция .

ОТВЕТ: 1г ; 2а ; 3б ; 4в ; 5д .

13. Ученого и открытие:

1	А. Эйнштейн	А	теория эволюции
2	А.Флеминг	Б	открытие электромагнитных волн
3	З.Фрейд	В	теория относительности
4	Ч. Дарвин	Г	изобретение пенициллина
5	Г.Герц	Д	психология






1	2	3	4	5

ОТВЕТ: 1в ; 2г ; 3д ; 4а ; 5 б .

14.Назовите автора следующих строк **(по 2 балла)**

1. «Мой визирь, я твердо знаю, что наши войска не смогут противостоять обученному войску. Уже тридцать лет доказывается это, и никто не понял. Я прилагал много усилий к тому, чтобы подготовить обученные войска. Но меня никто не поддержал... Я владею оружием наших предков значительно лучше многих других... Но я отлично знаю, что это оружие не сдержит войск, действующих по новой тактике...» - **Селим** III.....

2. “Остались мы с братом Георгием круглыми сиротами, никто нам не помогал, бояре получили, что хотели - царство без правителя, о нас же никакой заботы сердечной не проявили. И чего они только не натворили! Сокровища матери перенесли в казну, при этом неистово пиная ногами и тыча в них палками, и разделили между собой. Нас же с братом моим начали воспитывать, как последних нищих.. - **Иван IV Грозный**.....

3. «Идеалом Германии является и всегда была война, быстро доводимая до конца... В 1914 г. планы были составлены точно с такой же целью, и они чуть-чуть не были достигнуты, если бы не Россия...» **Дэвид Ллойд Джордж**.....

15.Закончите логический ряд: **(по 2 балла)**

1. Екатерина II Великая - Фридрих II Великий - **Иосиф II** .....
2. Креолы- метисы - мулаты - **самбо** .....
3. Переправа Наполеона через Неман - Смоленское сражение - Бородинское сражение - битва под Малоярославцем **– переправа через Березину (или битва у деревни Студенка)**.....
4. «Пионеры» - «Последний из могикан» - «Прерия» - «Следопыт» - «**Зверобой»**

16. Внимательно рассмотрите карты и ответьте на вопросы: **(по 3 балла)**

А) Город, который согласно решениям Парижской мирной конференции, превращался в «вольный город», обозначен на карте флажком с цифрой: 1)1; 2)2; 3)3; **4)4.**	Б) Территория государства, которое в 1922 г. установило дипломатические отношения с Советской Россией, обозначена на карте цифрой: 1)1; **2)2**; 3)3; 4)4.

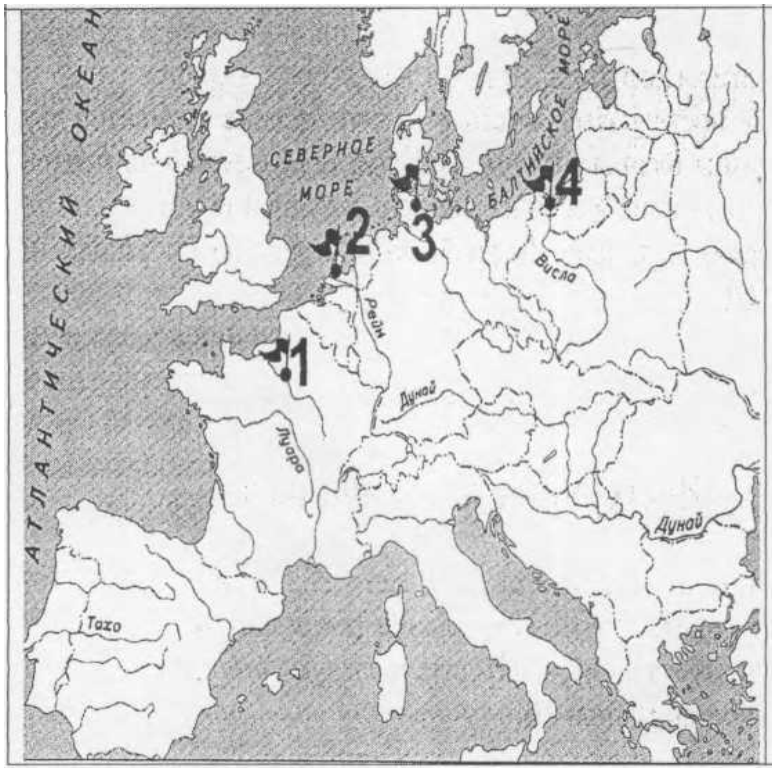

17. Внимательно рассмотрите рисунок и ответьте на вопросы:
1) Кто изображен на первом плане данной картины?
2) Что сделало возможным эту встречу? В каком году она могла состояться?
3) Каковы были последствия этих событий для двух этих стран?

Ответ1: **(2 балла)__ <u>Император Франции Наполеон III, министр-президент Пруссии Отто фон Бисмарк.</u>**

Ответ 2: **(3 балла) Поражение Наполеона III в битве под Седаном 1 сентября 1870 г. в ходе франко-прусской войны 1870-1871 гг. и его пленение. В период между пленением Наполеона III 2 сентября 1870 г. и освобождением его после заключения мира – май 1871 г., т. е. 1870 или 1871 г.**

Ответ 3: **(3 балла) В результате победы Пруссия смогла завершить объединение германских государств под своим верховенством. 18 января 1871 г. в Версале Бисмарк и Вильгельм I объявили о создании Германской империи. Уже через день после пленения Наполеона III в Париже началась Сентябрьская революция, в ходе которой было свергнуто правительство императора. В Париже была создана коммуна, а после ее подавления был установлен режим Третьей республики.**

ИСТОРИЯ БЕЛАРУСИ

Выберите правильный ответ.

1. Железный век на территории Беларуси начался около:
1) IV в. до н.э.; 2) V в. до н.э.; 3) VI в. до н.э.; 4) VII в. до н.э.

2. Наибольшее количество городищ раннего железного века в Беларуси найдено на территории:
1) Минской, Гродненской, Витебской областей;
2) Витебской, Гомельской, Могилевской областей;
3) Гомельской, Гродненской, Брестской областей;
4) Витебской, Гомельской, Минской областей.

3. Какую битву, кроме Грюнвальдской, историки называют «Битвой народов XV в.»?
1) под Вилькомиром; 2) на реке Ворскла; 3) на реке Улла; 4) под Мацеёвицами.

4. Какой документ запрещал крестьянам приобретать шляхетскую землю?
а) Привилей 1387 г.;
б) Судебник 1468 г.;
в) Статут 1529 г.;
г) Статут 1566 г.;
д) Статут 1588 **г.**

5. Оборону Полоцка в 1563 г. возглавлял:
а) Стефан Баторий;
б) Иван Грозный;
в) Пётр Шуйский;
г) Станислав Давойна;
д) Иван Трубецкой.

6. Определите пункт, который не относится к условиям Люблинской унии:
а) образование единого государства с общим монархом;
б) ВКЛ и Польша сохраняли собственные войска и самостоятельность во внешней политике;
в) отдельное избрание великого князя литовского запрещалось;
г) создание единого сейма;
д) введение единой денежной системы.

7. На II съезде белорусских национальных организаций в Минске был создан орган, который носил название:
1) Большая белорусская рада;
3) Белорусский народный комитет;
2) Белорусский национальный комитет;
4) Центральная рада белорусских организаций.

8. Манифест 17 октября 1905 провозгласил:
1) создание Государственной думы с совещательными полномочиями;
2) создание Государственной думы с законодательными полномочиями;
3) право участия в выборах только привилегированным сословиям;
запрет собраний и союзов.

9. Определите три характерные черты экономического развития белорусских земель в первой половине XIX в.:

1) Сокращение объема внешней торговли;
2) быстрое развитие банковской системы;
3) углубление специализации сельского хозяйства;
4) появление первых фабрик и заводов;
5) начало промышленного переворота.

10. Прочитайте выдержку из привилея Ягайло 1387 г. (6 баллов)

«Согласно древнему обычаю, военный поход остается обязанностью, которая осуществляется за собственный счет и деньги. В том случае, если придется преследовать врагов, неприятелей наших, которые бежали бы с нашей земли, то для этого преследования, которое по-народному называется погоней, обязаны отправляться не только рыцари, но и каждый мужчина, какое бы он ни имел происхождение или благосостояние, лишь бы только был способен носить оружие». **Используя выдержку, определите несколько правильных утверждений.**

1) Согласно привилею участникам военных походов в ВКЛ предоставлялось полное государственное обеспечение;
2) всеобщая военная служба — погоня — собиралась в ВКЛ с целью преследования и разгрома врага;
3) согласно документу, участие в погоне могли принимать только представители шляхты; .
4) в документе содержится информация о такой организации военной службы, как посполитое рушение;
5) каждый участник погони должен был принимать участие в военных походах за свой счет.

Соотнесите элементы двух множеств:

11. Населенный пункт и найденный около него археологический памятник:

А	п. Красносельский, Волковыский район	1	языческое захоронение шахтера
Б	д. Осовец, Бешенковичский район	2	рало
В	д. Коплановичи, Клецкий район	3	статуэтки людей
Г	д. Лабенщина, Минский район	4	печь-домница

ОТВЕТ: А1_ ; Б3 _; В 2; Г4____.

12. Соотнесите название должности и их функции:

А	Канцлер	1	главный начальник над вооруженными силами Великого Княжества Литовского
Б	Г етман	2	управляющий великокняжескими замками
В	Маршалок	3	должностное лицо в ВКЛ, хранитель государственной печати; с середины XVI ст. фактически наместник великого князя
Г	Каштелян	4	руководил двором великого князя, принимал заграничных послов, высших должностных лиц государства, наблюдал за этикетом, следил за безопасностью монарха

ОТВЕТ: А3_ ; Б1 _; В 4; Г2____.

13. Соотнесите название мира и условия его заключения:

А	Поляновский мир	1	избрание и утверждение Михаила Романова русским царем
Б	Ям-Запольский мир	2	отказ Владислава Вазы от претензии на русский трон
В	Дэулинское перемирие	3	ВКЛ вернула в состав своей территории Смоленск
Г	Земский собор	4	мирное соглашение по итогам Ливонской войны

ОТВЕТ: А2_ ; Б4 ; В 3 ; Г1_____.

14. Что объединяет? (Ответ сформулируйте коротко - одним словом или словосочетанием)

1. Прусы, яцвяги, курши, аукштайты, жемойты, латгалы- балты
2. Челядь, холопы, смерды, закупы- категории крестьян
3. 1508 г., Ян Заберезинский, Туров, Сигизмунт I Старый, Василий III- восстание М.Глинского.
4. “Стража прав”, отмена “либерум вето”, выборность королевской власти, создание судов, независимых от администрации, И. Потоцкий и Г. Коллонтай.- Конституция РП
5. “Жалейка”, “Гусляр”, “Курган”, “Бондаровна”, “Павлинка”- Я.Купала
6. Барановичи, Могилев, Свентянский прорыв, Нарочанская операция, Сморгонь – Первая мировая война

15. Внимательно изучите карту и задания. При ответе укажите цифру, которая соответствует городу. Ответы внесите в таблицу, указав цифру и название города.:

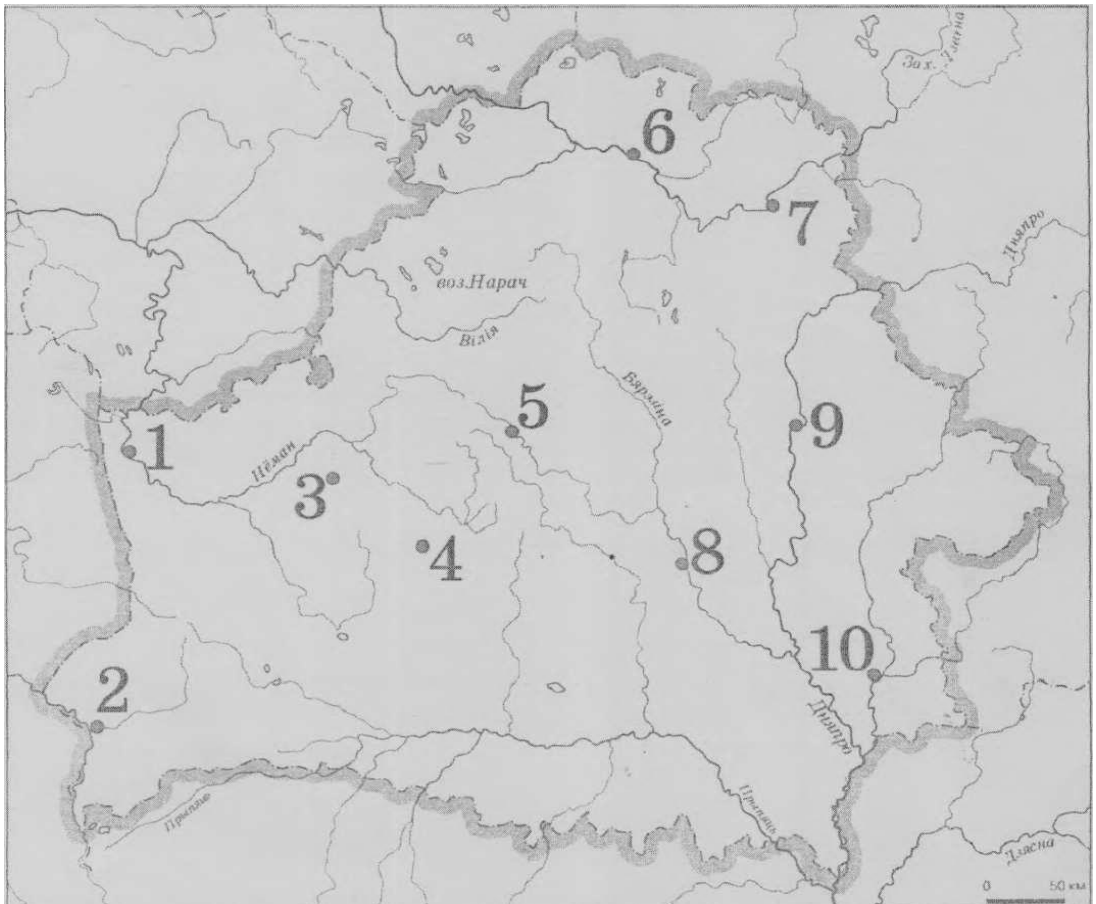

	Задание	Число, которым отмечен город	Название города
1	Город, возле которого Всеслав Чародей сражался с братьями Всеславичами.	5	Минск
2	Г ород, центр княжества, князем которого в XII в. был Всеволод.	1	Гродно
3	Город, центр княжества, которое вошло в состав ВКЛ в 1307 г.	6	Полоцк
4	Город, который до 1323 г. был столицей ВКЛ.	3	Новогрудок
5	Город, который подвергался агрессии крестоносцев в 1284, 1295, 1296, 1311 и 1328 гг.	1	Гродно
6	Г ород, в котором находилась первая кальвинистская община на территории Беларуси.	2	Брест
7	Город, где расположена крепость, гарнизон которой в 1812 г. выдержал четырехмесячную осаду противника.	8	Бобруйск
8	Город, где в 1890-1901 гг. городским головой был Карл Эмерикович фон Гуттен-Чапский.	5	Минск

16. Исторический документ. Ознакомьтесь с отрывком из текста и ответьте на вопросы:

«Религия установлена людьми неверующими, чтобы их чествовали.... Вера в Бога введена безбожниками. Страх божий насаждается теми, кто, не имея страха, все делает для того, чтобы (их) боялись».

1) Как называется это произведение XVII в.? «0 несуществовании Бога»;- 2 балла
2) Кто является автором этого произведения? К. Лыщинский- 2 балла

17. Внимательно рассмотрите картину и ответьте на вопросы:

1) Какое событие второй половины XVI в. изображено на картине? **(2 балла)**

Осада Стефаном Баторием Пскова в 1581 г.

2) К каким историческим последствиям привело событие, изображенное на картине? **(2 балла)**

К заключению мира между Россией и Речью Посполитой в Ям-Заполье в 1582г. и выходу РП из Ливонской войны.

3) Что вы знаете о данном событии и его влиянии на историю нашей и других стран? **(5 баллов) С 18 августа 1581 года по 4 февраля 1582 года Псков находился в осаде. Силы сражающихся были неравны – Баторий привел под Псков 50-тысячное войско, в котором помимо польско-литовских отрядов были добровольцы и наемники из многих стран Западной Европы. Им должны были противостоять 16 тысяч царского войска (стрельцов и дворян) и 10 тысяч ополченцев-горожан.**

После подписания мира Иван Грозный отказывался от городов Ливонии. Русское царство теряло города Полоцк и Велиж, и возвращалось к старым

границам. Русскому царству возвращались со всем имуществом и волостями города, захваченные Стефаном Баторием во владениях Русского царства. Сроком на 10 лет прекращались военные действия с обеих сторон. Из договора были исключены названия городов Ливонии, захваченных Швецией (в том числе Нарвы), но польские послы в специальном заявлении упомянули о претензиях Речи Посполитой на шведские приобретения в Ливонии. В связи с нацеленностью внешней политики на восток Баторий стремился развивать инфраструктуру государственного управления в границах Великого княжества Литовского, планировал перенести столицу Речи Посполитой в Гродно, где перестроил королевский замок, и поддержал иезуитов в стремлении создать высшее учебное заведение и т.д.

4) Кто автор этого полотна? **(1 балл) К. Брюллов**.....

Всемирная история			История Беларуси	
№ задания	количество баллов за правильный ответ		№ задания	количество баллов за правильный ответ
1	1		1	1
2	1		2	1
3	1		3	1
4	1		4	1
5	1		5	1
6	1		6	1
7	1		7	1
8	1		8	1
9	5		9	3
10	4		10	6
11	5		11	4
12	5		12	4
13	5		13	4
14	6		14	6
15	8		15	16
16	6		16	4
17	8		17	10
Итого	60		Итого	65
Всего: 125				